地図記号テスト（16問・1）

それぞれの地図記号が表しているものを、（　）に書きましょう。

なまえ＿＿＿＿＿＿＿＿＿＿＿＿＿＿＿＿　月　日

(1) 
(　　)

(2) 
(　　)

(3) 
(　　)

(4) 
(　　)

(5) 
(　　)

(6) 
(　　)

(7) 
(　　)

(8) 
(　　)

(9) 
(　　)

(10) 
(　　)

(11) 
(　　)

(12) 
(　　)

(13) 
(　　)

(14) 
(　　)

(15) 
(　　)

(16) 
(　　)

こたえ：地図記号テスト（16問・1）

1ページ目の問題の答えです。

(1) 

城跡

(2) 

灯台

(3) 

警察署

(4) 

三角点

(5) 

税務署

(6) 

郵便局

(7) 

港湾

(8) 

博物館・美術館

(9) 

針葉樹林

(10) 

水準点

(11) 

小・中学校

(12) 

病院

(13) 

噴火口・噴気口

(14) 

図書館

(15) 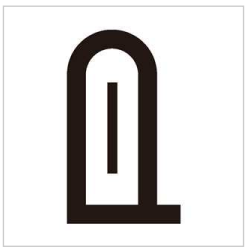

自然災害伝承碑

(16) 

風車