# 地図記号テスト（16問・2）

それぞれの地図記号が表しているものを、（　）に書きましょう。

なまえ＿＿＿＿＿＿＿＿＿＿＿＿＿＿＿＿　月　日

(1) 
(　　)

(2) 
(　　)

(3) 
(　　)

(4) 
(　　)

(5) 
(　　)

(6) 
(　　)

(7) 
(　　)

(8) 
(　　)

(9) 
(　　)

(10) 
(　　)

(11) 
(　　)

(12) 
(　　)

(13) 
(　　)

(14) 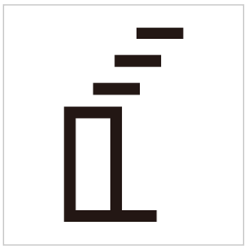
(　　)

(15) 
(　　)

(16) 
(　　)

# こたえ：地図記号テスト（16問・2）

1ページ目の問題の答えです。

(1) 
博物館・美術館

(2) 
神社

(3) 
消防署

(4) 
官公署

(5) 
果樹園

(6) 
漁港

(7) 
裁判所

(8) 
港湾

(9) 
町村役場

(10) 
墓地

(11) 
電波塔

(12) 
噴火口・噴気口

(13) 
交番

(14) 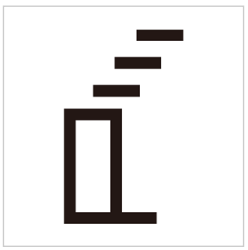
煙突

(15) 
小・中学校

(16) 
竹林