反比例のグラフ（2問）

表の点をとって、グラフをかきましょう。

なまえ ＿＿＿＿＿＿＿＿＿＿＿＿＿＿＿＿　月　日

(1)　y = 12 ÷ x

x	1	2	3	4	6	12
y	12	6	4	3	2	1

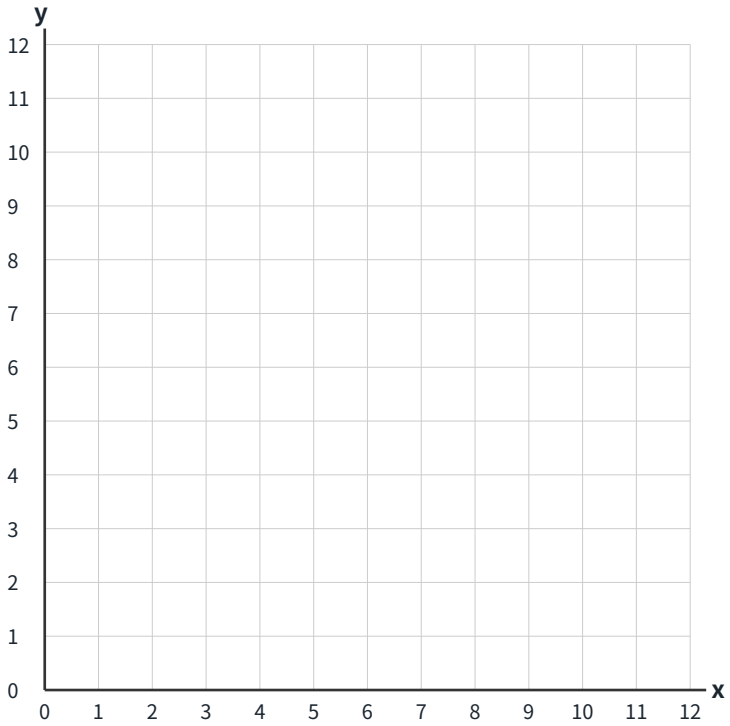

(2)　y = 24 ÷ x

x	2	3	4	6	8	12
y	12	8	6	4	3	2

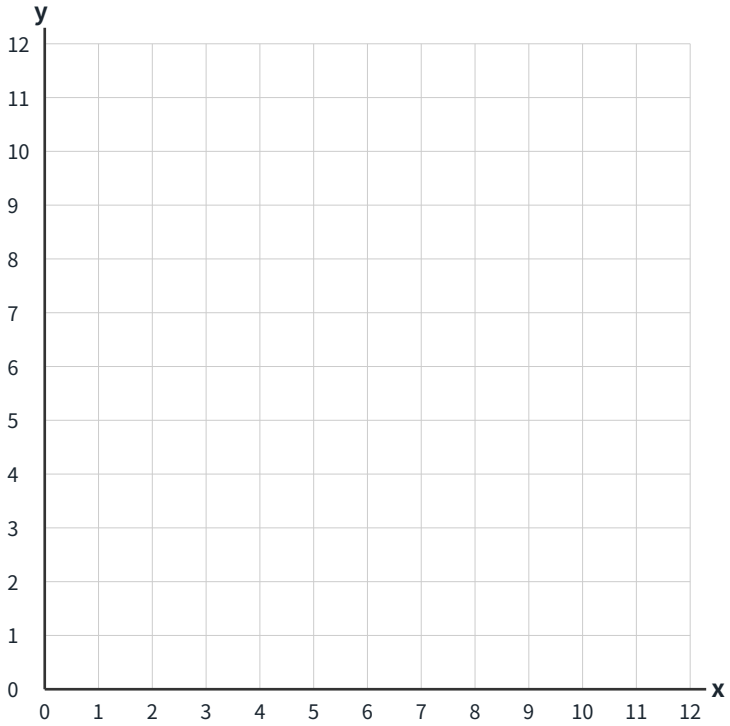

こたえ：反比例のグラフ（2問）

1ページ目の問題の答えです。

(1)　y = 12 ÷ x

x	1	2	3	4	6	12
y	12	6	4	3	2	1

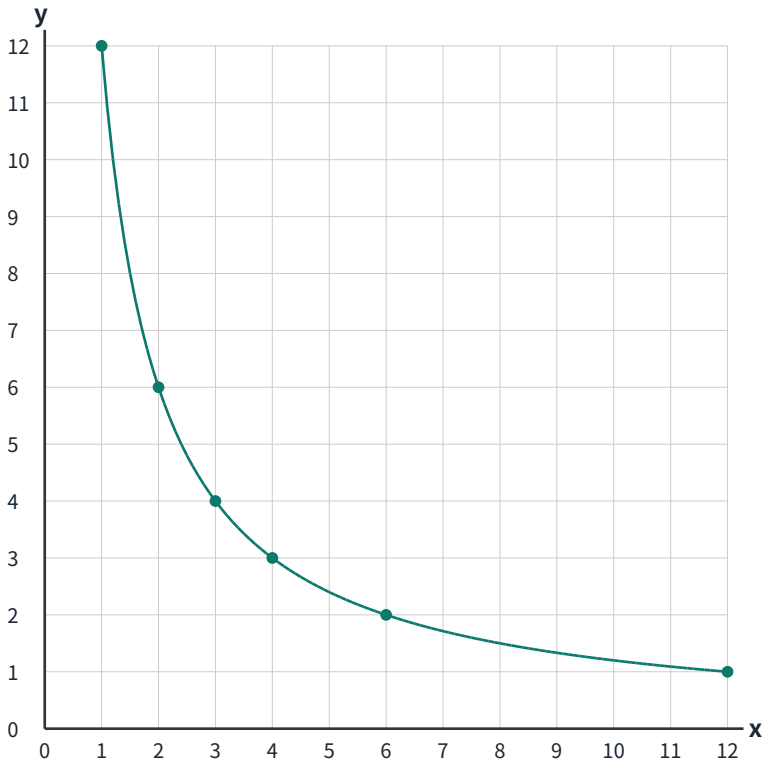

(2)　y = 24 ÷ x

x	2	3	4	6	8	12
y	12	8	6	4	3	2

