比例のグラフ（2問）

表の点をとって、グラフをかきましょう。

なまえ ＿＿＿＿＿＿＿＿＿＿＿＿＿＿＿＿　月　日

(1)　y＝2×x

x	0	1	2	3	4	5	6
y	0	2	4	6	8	10	12



(2)　y＝3×x

x	0	1	2	3	4
y	0	3	6	9	12

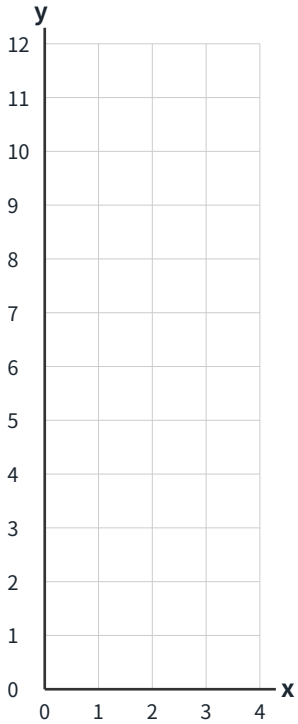

こたえ：比例のグラフ（2問）

1ページ目の問題の答えです。

(1)　y = 2 × x

x	0	1	2	3	4	5	6
y	0	2	4	6	8	10	12

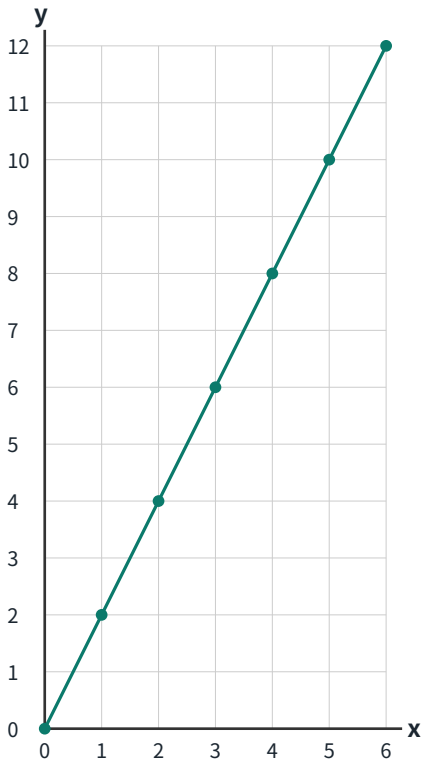

(2)　y = 3 × x

x	0	1	2	3	4
y	0	3	6	9	12

