都道府県の形クイズ（1）12問

形を見て、都道府県の名前を書きましょう。大きさはそろえてあり、実際の大きさとはちがいます。

なまえ＿＿＿＿＿＿＿＿＿＿＿＿＿＿＿＿　月　日

(1)

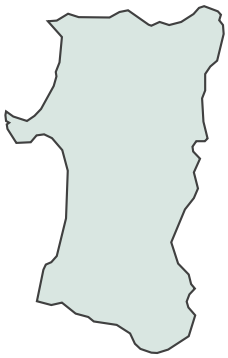

（　　）

(2)



（　　）

(3)



（　　）

(4)



（　　）

(5)

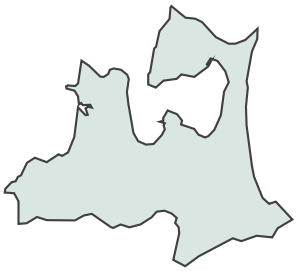

（　　）

(6)

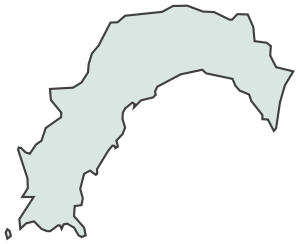

（　　）

(7)



（　　）

(8)

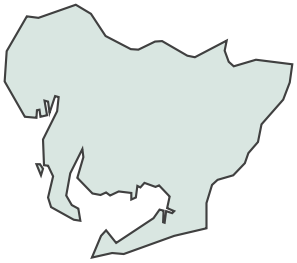

（　　）

(9)

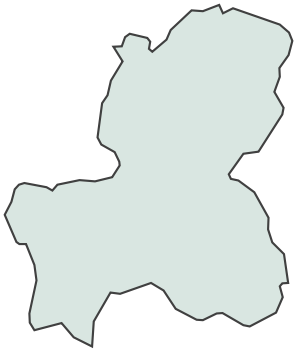

（　　）

(10)

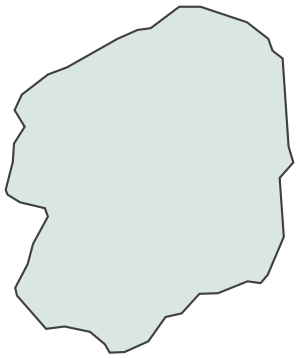

（　　）

(11)

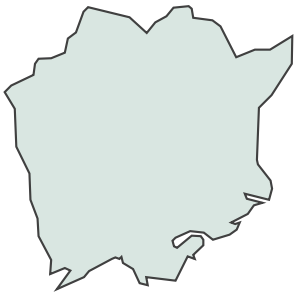

（　　）

(12)



（　　）

こたえ：都道府県の形クイズ（1）12問

1ページ目の問題の答えです。

(1)

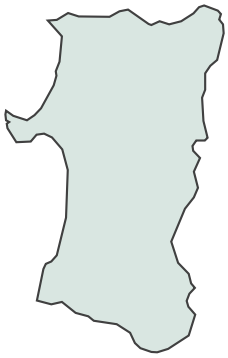

秋田県

(2)



北海道

(3)



熊本県

(4)



新潟県

(5)

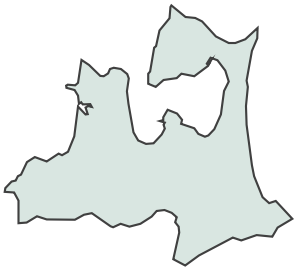

青森県

(6)

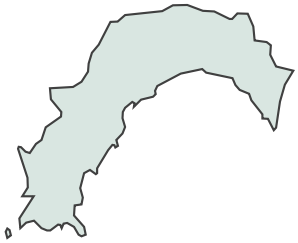

高知県

(7)



島根県

(8)

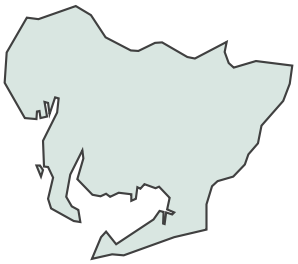

愛知県

(9)

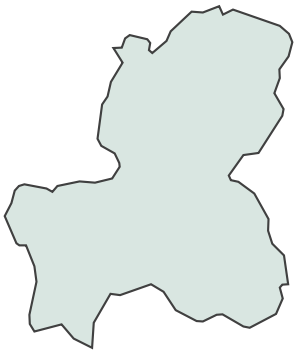

岐阜県

(10)

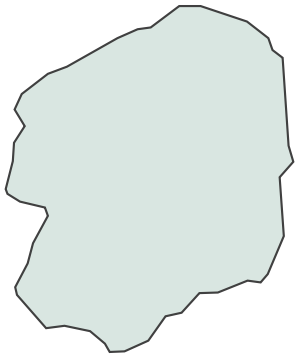

栃木県

(11)

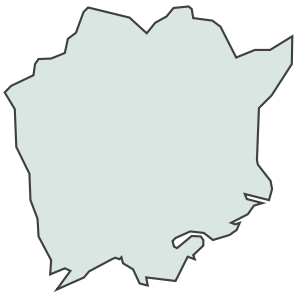

岡山県

(12)



徳島県