円の面積（直径）

直径のときは、まず半径になおしましょう。

なまえ ＿＿＿＿＿＿＿＿＿＿＿＿＿＿＿＿　月　日

(1)

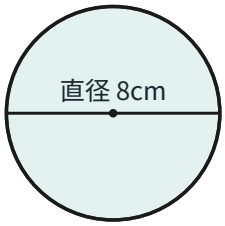

しき ＿＿＿＿＿＿＿＿＿＿
面積 ＿＿＿＿＿＿＿＿＿＿ cm^2

(2)

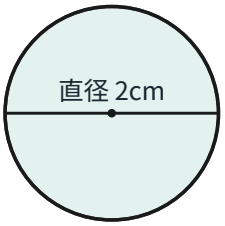

しき ＿＿＿＿＿＿＿＿＿＿
面積 ＿＿＿＿＿＿＿＿＿＿ cm^2

(3)

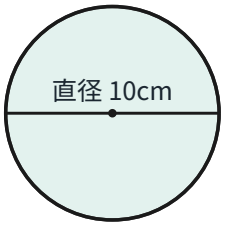

しき ＿＿＿＿＿＿＿＿＿＿
面積 ＿＿＿＿＿＿＿＿＿＿ cm^2

(4)

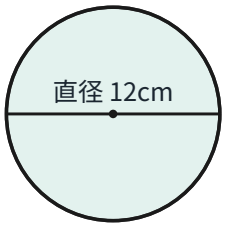

しき ＿＿＿＿＿＿＿＿＿＿
面積 ＿＿＿＿＿＿＿＿＿＿ cm^2

(5)

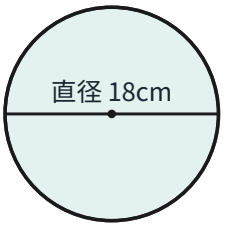

しき ＿＿＿＿＿＿＿＿＿＿
面積 ＿＿＿＿＿＿＿＿＿＿ cm^2

(6)

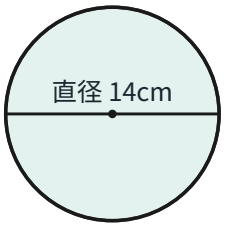

しき ＿＿＿＿＿＿＿＿＿＿
面積 ＿＿＿＿＿＿＿＿＿＿ cm^2

(7)

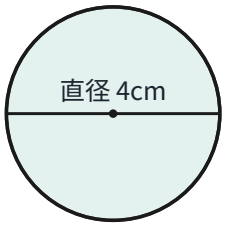

しき ＿＿＿＿＿＿＿＿＿＿
面積 ＿＿＿＿＿＿＿＿＿＿ cm^2

(8)

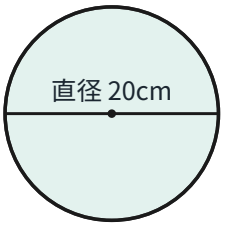

しき ＿＿＿＿＿＿＿＿＿＿
面積 ＿＿＿＿＿＿＿＿＿＿ cm^2

(9)

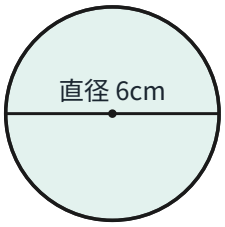

しき ＿＿＿＿＿＿＿＿＿＿
面積 ＿＿＿＿＿＿＿＿＿＿ cm^2

こたえ：円の面積（直径）

1ページ目の問題の答えです。

(1)

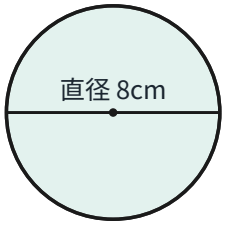

4 × 4 × 3.14 = 50.24
面積　50.24 cm²

(2)

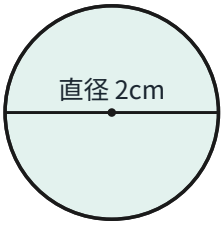

1 × 1 × 3.14 = 3.14
面積　3.14 cm²

(3)

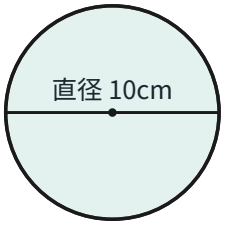

5 × 5 × 3.14 = 78.5
面積　78.5 cm²

(4)

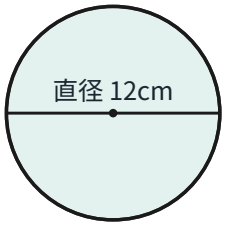

6 × 6 × 3.14 = 113.04
面積　113.04 cm²

(5)

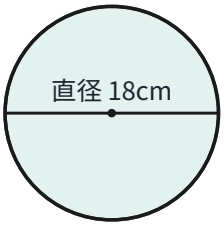

9 × 9 × 3.14 = 254.34
面積　254.34 cm²

(6)

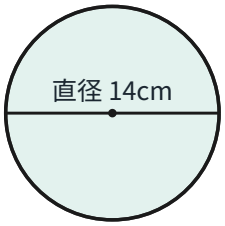

7 × 7 × 3.14 = 153.86
面積　153.86 cm²

(7)

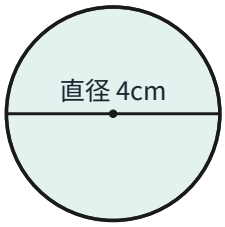

2 × 2 × 3.14 = 12.56
面積　12.56 cm²

(8)

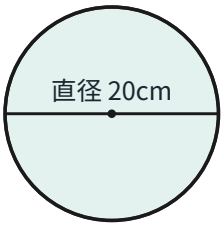

10 × 10 × 3.14 = 314
面積　314 cm²

(9)

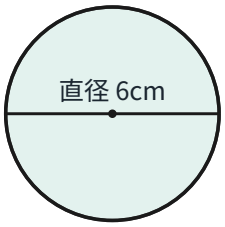

3 × 3 × 3.14 = 28.26
面積　28.26 cm²