円の面積（半径20 cm まで）

大きな円の面積です。3.14 のかけ算をていねいに。

なまえ ＿＿＿＿＿＿＿＿＿＿＿＿＿＿＿＿　月　日

(1)

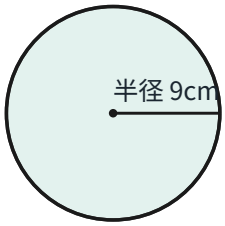

しき ＿＿＿＿＿＿＿＿＿＿
面積 ＿＿＿＿＿＿＿＿＿＿ cm^2

(2)

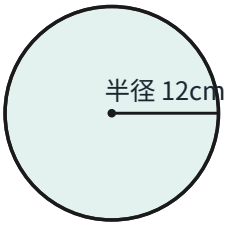

しき ＿＿＿＿＿＿＿＿＿＿
面積 ＿＿＿＿＿＿＿＿＿＿ cm^2

(3)

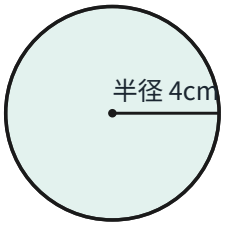

しき ＿＿＿＿＿＿＿＿＿＿
面積 ＿＿＿＿＿＿＿＿＿＿ cm^2

(4)

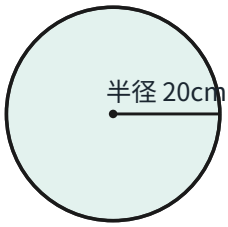

しき ＿＿＿＿＿＿＿＿＿＿
面積 ＿＿＿＿＿＿＿＿＿＿ cm^2

(5)

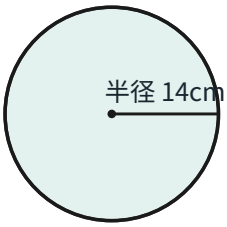

しき ＿＿＿＿＿＿＿＿＿＿
面積 ＿＿＿＿＿＿＿＿＿＿ cm^2

(6)

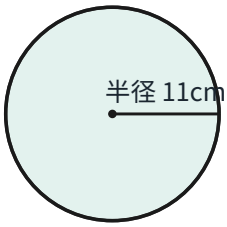

しき ＿＿＿＿＿＿＿＿＿＿
面積 ＿＿＿＿＿＿＿＿＿＿ cm^2

(7)

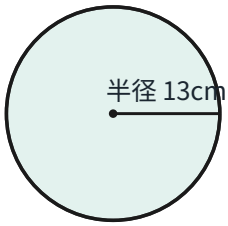

しき ＿＿＿＿＿＿＿＿＿＿
面積 ＿＿＿＿＿＿＿＿＿＿ cm^2

(8)

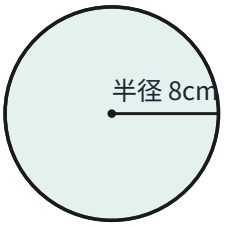

しき ＿＿＿＿＿＿＿＿＿＿
面積 ＿＿＿＿＿＿＿＿＿＿ cm^2

(9)

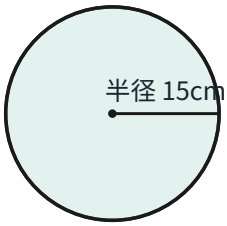

しき ＿＿＿＿＿＿＿＿＿＿
面積 ＿＿＿＿＿＿＿＿＿＿ cm^2

こたえ：円の面積（半径20 cm まで）

1ページ目の問題の答えです。

(1)

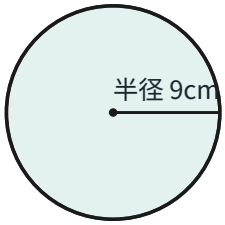

9 × 9 × 3.14 = 254.34
面積　254.34 cm²

(2)

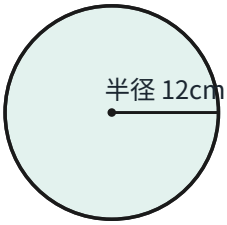

12 × 12 × 3.14 = 452.16
面積　452.16 cm²

(3)

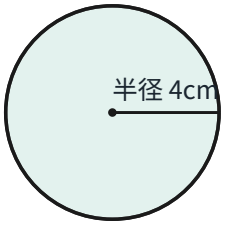

4 × 4 × 3.14 = 50.24
面積　50.24 cm²

(4)

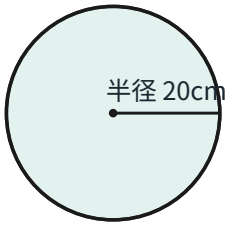

20 × 20 × 3.14 = 1,256
面積　1,256 cm²

(5)

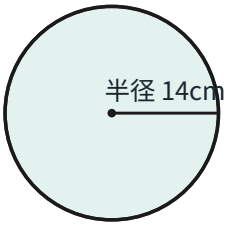

14 × 14 × 3.14 = 615.44
面積　615.44 cm²

(6)

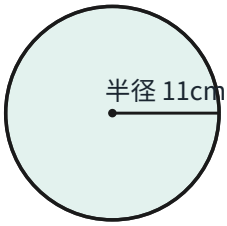

11 × 11 × 3.14 = 379.94
面積　379.94 cm²

(7)

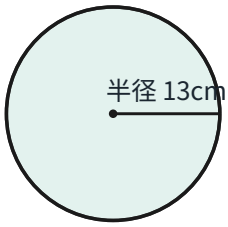

13 × 13 × 3.14 = 530.66
面積　530.66 cm²

(8)

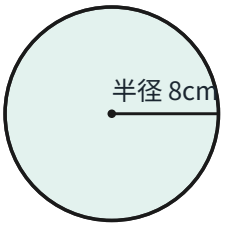

8 × 8 × 3.14 = 200.96
面積　200.96 cm²

(9)

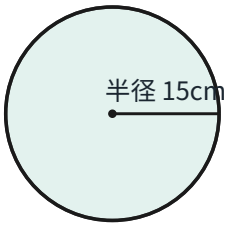

15 × 15 × 3.14 = 706.5
面積　706.5 cm²