# ひし形の面積

対角線 × 対角線 ÷ 2 で面積を求めましょう。

なまえ _____　　月　日

(1)

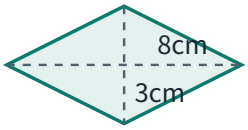


しき _____
面積 _____ cm²

(2)

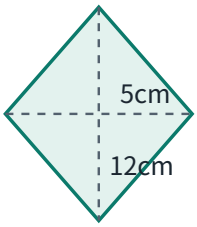


しき _____
面積 _____ cm²

(3)

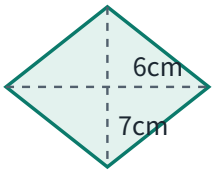


しき _____
面積 _____ cm²

(4)

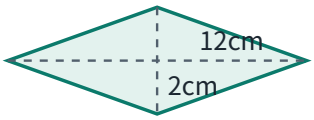


しき _____
面積 _____ cm²

(5)

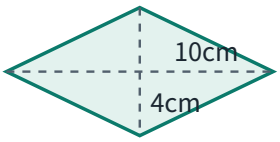


しき _____
面積 _____ cm²

(6)

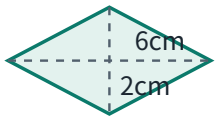


しき _____
面積 _____ cm²

(7)

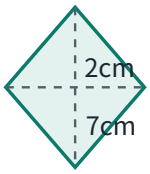


しき _____
面積 _____ cm²

(8)

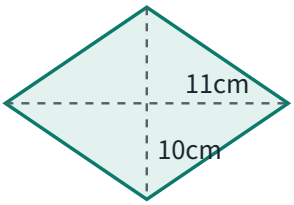


しき _____
面積 _____ cm²

(9)

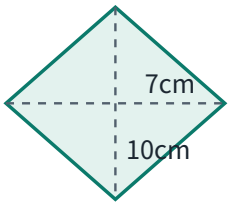


しき _____
面積 _____ cm²

# こたえ：ひし形の面積

1ページ目の問題の答えです。

(1)

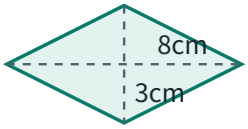


**8 × 3 ÷ 2 = 12**
**面積　12 cm²**

(2)

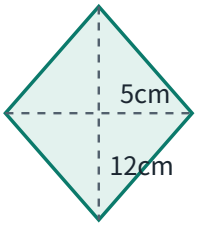


**5 × 12 ÷ 2 = 30**
**面積　30 cm²**

(3)

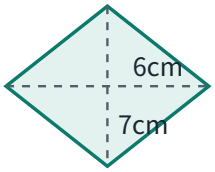


**6 × 7 ÷ 2 = 21**
**面積　21 cm²**

(4)

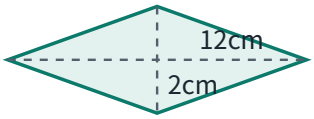


**12 × 2 ÷ 2 = 12**
**面積　12 cm²**

(5)

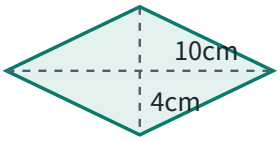


**10 × 4 ÷ 2 = 20**
**面積　20 cm²**

(6)

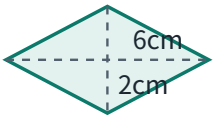


**6 × 2 ÷ 2 = 6**
**面積　6 cm²**

(7)

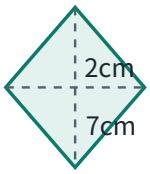


**2 × 7 ÷ 2 = 7**
**面積　7 cm²**

(8)

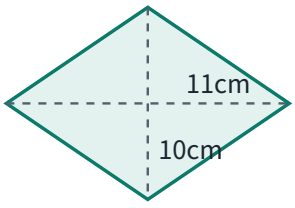


**11 × 10 ÷ 2 = 55**
**面積　55 cm²**

(9)

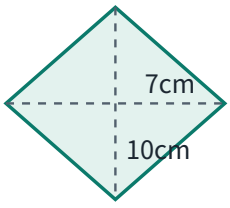


**7 × 10 ÷ 2 = 35**
**面積　35 cm²**