台形の面積

（上底＋下底）× 高さ ÷ 2 で面積を求めましょう。

なまえ ＿＿＿＿＿＿＿＿＿＿＿＿＿＿＿＿　月　日

(1)

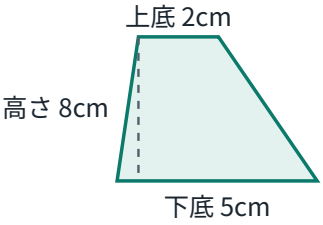

しき ＿＿＿＿＿＿＿＿＿＿

面積 ＿＿＿＿＿＿＿＿ cm^2

(2)

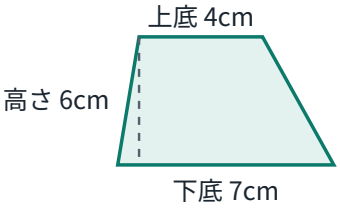

しき ＿＿＿＿＿＿＿＿＿＿

面積 ＿＿＿＿＿＿＿＿ cm^2

(3)

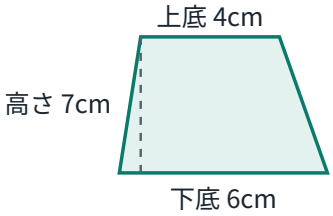

しき ＿＿＿＿＿＿＿＿＿＿

面積 ＿＿＿＿＿＿＿＿ cm^2

(4)

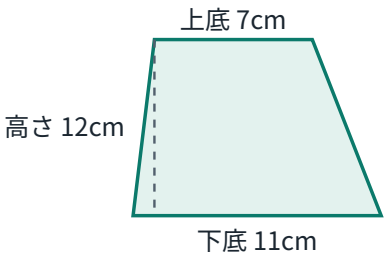

しき ＿＿＿＿＿＿＿＿＿＿

面積 ＿＿＿＿＿＿＿＿ cm^2

(5)

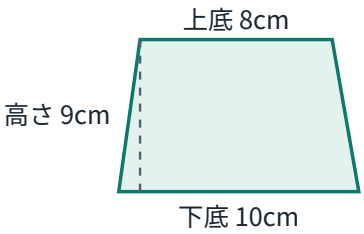

しき ＿＿＿＿＿＿＿＿＿＿

面積 ＿＿＿＿＿＿＿＿ cm^2

(6)

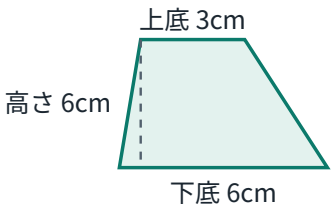

しき ＿＿＿＿＿＿＿＿＿＿

面積 ＿＿＿＿＿＿＿＿ cm^2

(7)

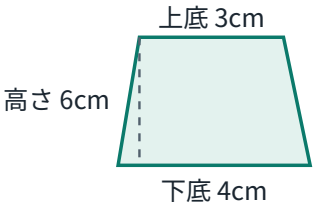

しき ＿＿＿＿＿＿＿＿＿＿

面積 ＿＿＿＿＿＿＿＿ cm^2

(8)

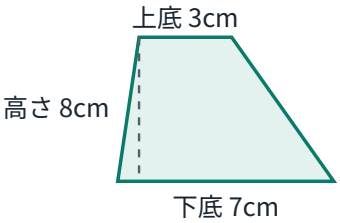

しき ＿＿＿＿＿＿＿＿＿＿

面積 ＿＿＿＿＿＿＿＿ cm^2

(9)

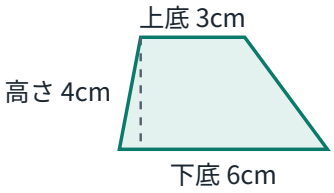

しき ＿＿＿＿＿＿＿＿＿＿

面積 ＿＿＿＿＿＿＿＿ cm^2

こたえ：台形の面積

1ページ目の問題の答えです。

(1)

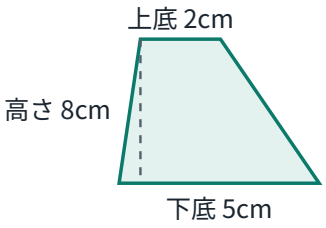

（2＋5）× 8 ÷ 2 ＝ 28
面積　28 cm²

(2)

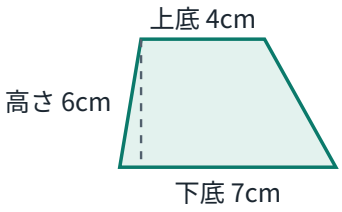

（4＋7）× 6 ÷ 2 ＝ 33
面積　33 cm²

(3)

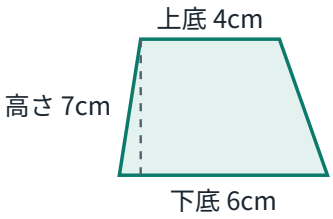

（4＋6）× 7 ÷ 2 ＝ 35
面積　35 cm²

(4)

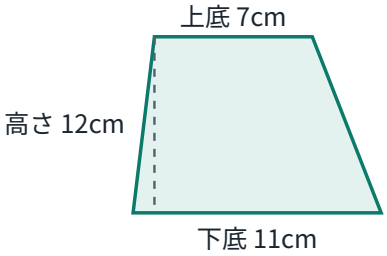

（7＋11）× 12 ÷ 2 ＝ 108
面積　108 cm²

(5)

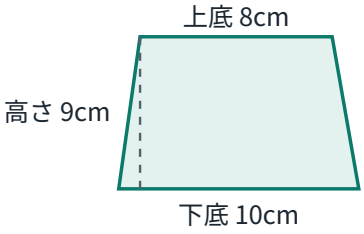

（8＋10）× 9 ÷ 2 ＝ 81
面積　81 cm²

(6)

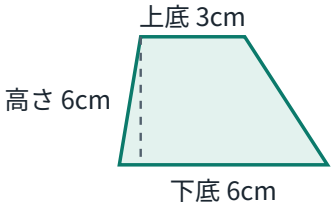

（3＋6）× 6 ÷ 2 ＝ 27
面積　27 cm²

(7)

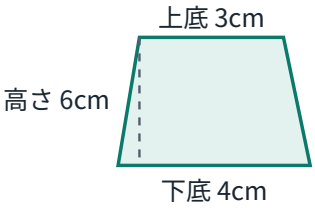

（3＋4）× 6 ÷ 2 ＝ 21
面積　21 cm²

(8)

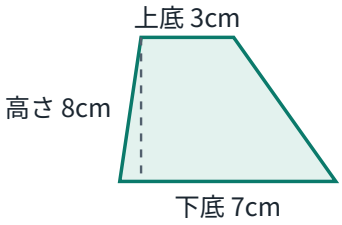

（3＋7）× 8 ÷ 2 ＝ 40
面積　40 cm²

(9)

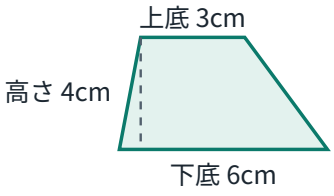

（3＋6）× 4 ÷ 2 ＝ 18
面積　18 cm²