台形の面積（20 cm まで）

大きな数の台形です。

なまえ _____　　月　日

(1)

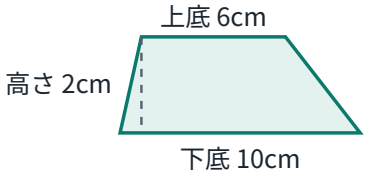

しき _____

面積 _____ cm^2

(2)

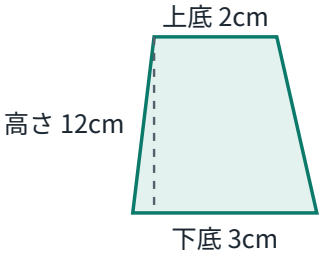

しき _____

面積 _____ cm^2

(3)

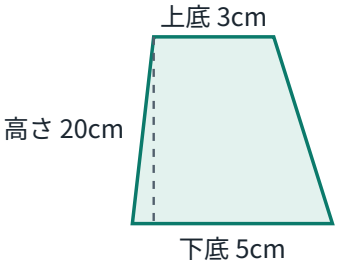

しき _____

面積 _____ cm^2

(4)

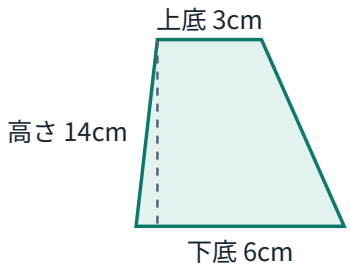

しき _____

面積 _____ cm^2

(5)

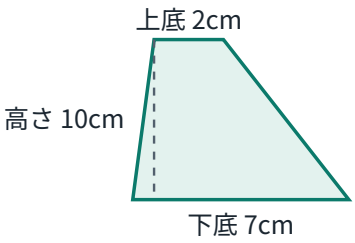

しき _____

面積 _____ cm^2

(6)

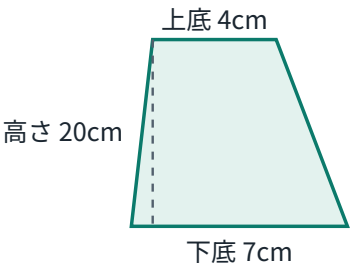

しき _____

面積 _____ cm^2

(7)

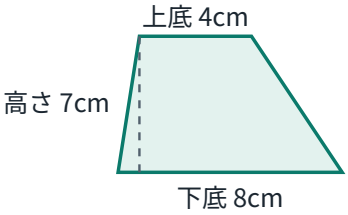

しき _____

面積 _____ cm^2

(8)

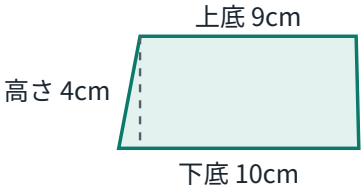

しき _____

面積 _____ cm^2

(9)

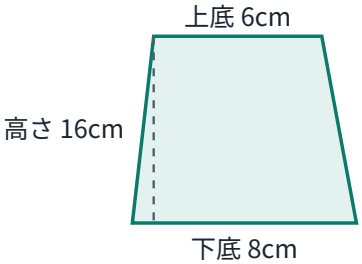

しき _____

面積 _____ cm^2

こたえ：台形の面積（20 cm まで）

1ページ目の問題の答えです。

(1)

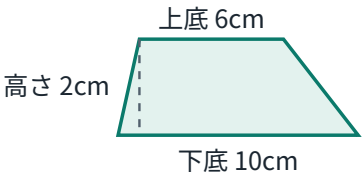

（6 + 10）× 2 ÷ 2 = 16
面積　16 cm²

(2)

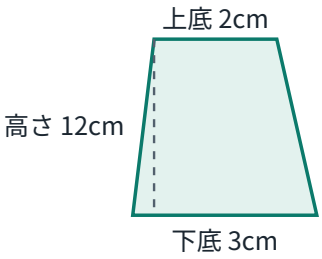

（2 + 3）× 12 ÷ 2 = 30
面積　30 cm²

(3)

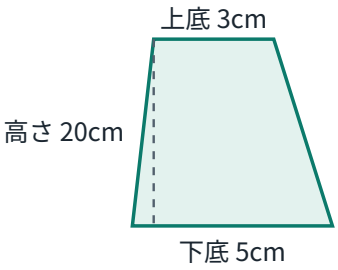

（3 + 5）× 20 ÷ 2 = 80
面積　80 cm²

(4)

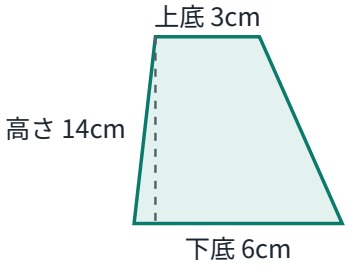

（3 + 6）× 14 ÷ 2 = 63
面積　63 cm²

(5)

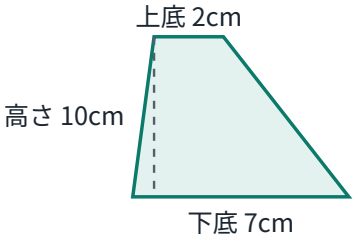

（2 + 7）× 10 ÷ 2 = 45
面積　45 cm²

(6)

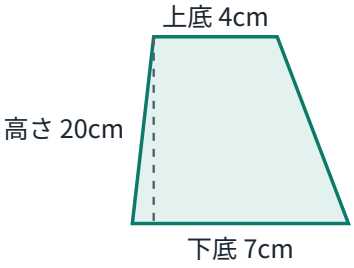

（4 + 7）× 20 ÷ 2 = 110
面積　110 cm²

(7)

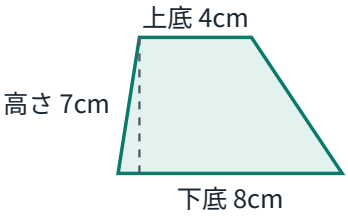

（4 + 8）× 7 ÷ 2 = 42
面積　42 cm²

(8)

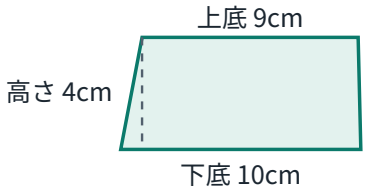

（9 + 10）× 4 ÷ 2 = 38
面積　38 cm²

(9)

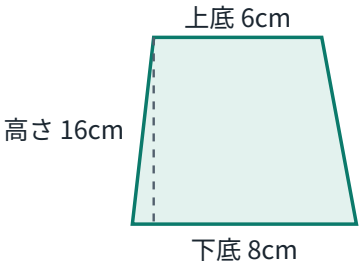

（6 + 8）× 16 ÷ 2 = 112
面積　112 cm²