# 三角形の面積（高さが外にある三角形）

高さが三角形の外にあっても、底辺 × 高さ ÷ 2 で求められます。

なまえ ＿＿＿＿＿＿＿＿＿＿＿＿＿＿＿＿　月　日

(1)

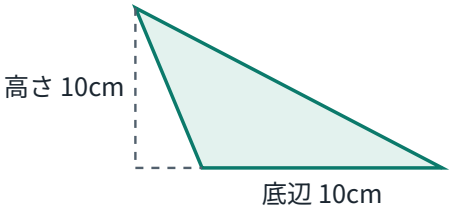


しき ＿＿＿＿＿＿＿＿＿＿
面積 ＿＿＿＿＿＿＿＿＿＿ cm²

(2)

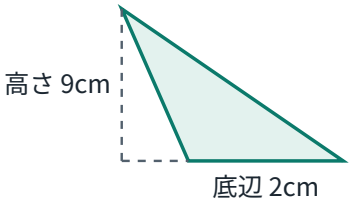


しき ＿＿＿＿＿＿＿＿＿＿
面積 ＿＿＿＿＿＿＿＿＿＿ cm²

(3)

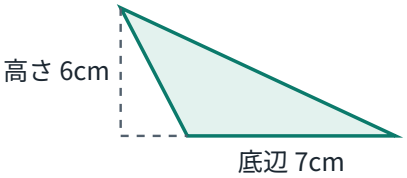


しき ＿＿＿＿＿＿＿＿＿＿
面積 ＿＿＿＿＿＿＿＿＿＿ cm²

(4)

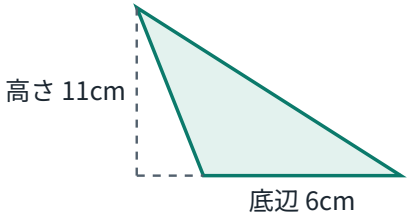


しき ＿＿＿＿＿＿＿＿＿＿
面積 ＿＿＿＿＿＿＿＿＿＿ cm²

(5)

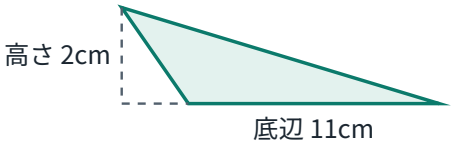


しき ＿＿＿＿＿＿＿＿＿＿
面積 ＿＿＿＿＿＿＿＿＿＿ cm²

(6)

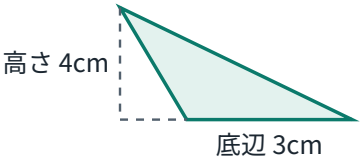


しき ＿＿＿＿＿＿＿＿＿＿
面積 ＿＿＿＿＿＿＿＿＿＿ cm²

(7)

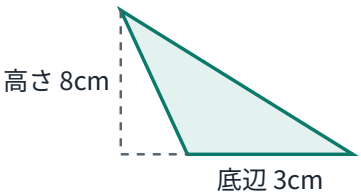


しき ＿＿＿＿＿＿＿＿＿＿
面積 ＿＿＿＿＿＿＿＿＿＿ cm²

(8)

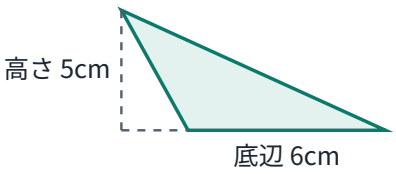


しき ＿＿＿＿＿＿＿＿＿＿
面積 ＿＿＿＿＿＿＿＿＿＿ cm²

(9)

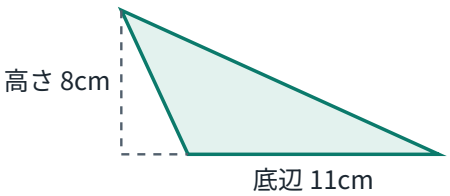


しき ＿＿＿＿＿＿＿＿＿＿
面積 ＿＿＿＿＿＿＿＿＿＿ cm²

# こたえ：三角形の面積（高さが外にある三角形）

1ページ目の問題の答えです。

(1)

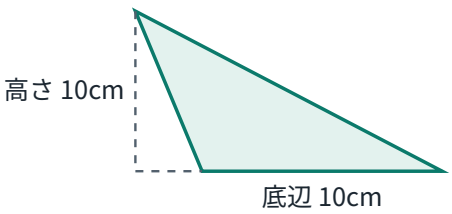


**10 × 10 ÷ 2 = 50**
**面積　50 cm²**

(2)

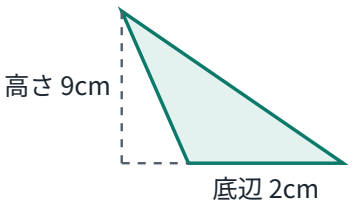


**2 × 9 ÷ 2 = 9**
**面積　9 cm²**

(3)

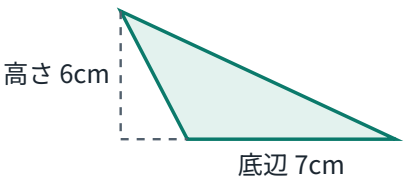


**7 × 6 ÷ 2 = 21**
**面積　21 cm²**

(4)

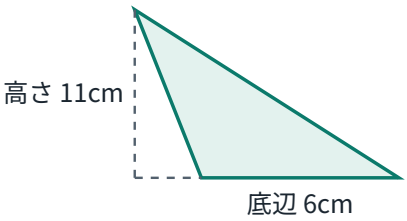


**6 × 11 ÷ 2 = 33**
**面積　33 cm²**

(5)

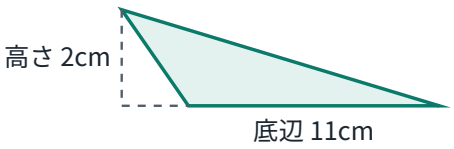


**11 × 2 ÷ 2 = 11**
**面積　11 cm²**

(6)

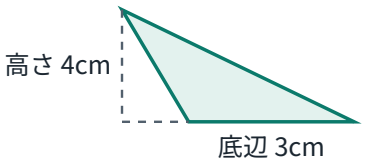


**3 × 4 ÷ 2 = 6**
**面積　6 cm²**

(7)

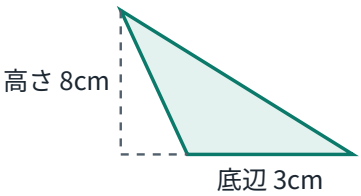


**3 × 8 ÷ 2 = 12**
**面積　12 cm²**

(8)

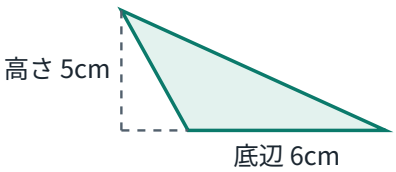


**6 × 5 ÷ 2 = 15**
**面積　15 cm²**

(9)

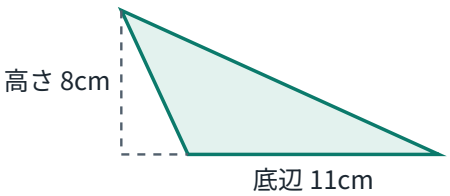


**11 × 8 ÷ 2 = 44**
**面積　44 cm²**