三角形の面積

底辺 × 高さ ÷ 2 で面積を求めましょう。

なまえ _____　　月　日

(1)

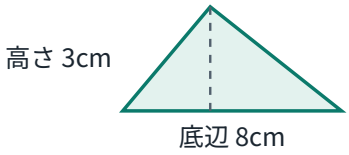

しき _____

面積 _____ cm^2

(2)



しき _____

面積 _____ cm^2

(3)

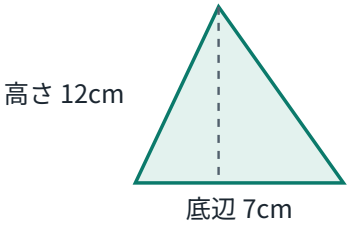

しき _____

面積 _____ cm^2

(4)



しき _____

面積 _____ cm^2

(5)

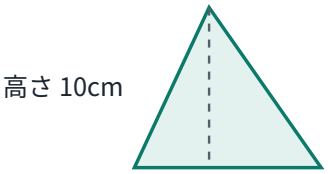

しき _____

面積 _____ cm^2

(6)

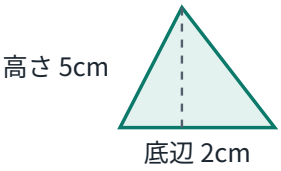

しき _____

面積 _____ cm^2

(7)

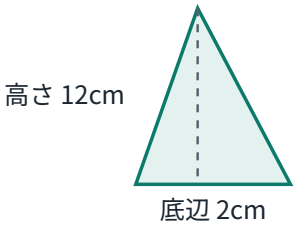

しき _____

面積 _____ cm^2

(8)

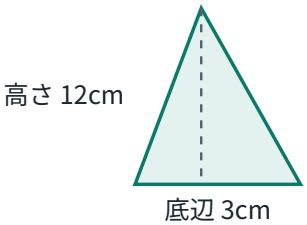

しき _____

面積 _____ cm^2

(9)

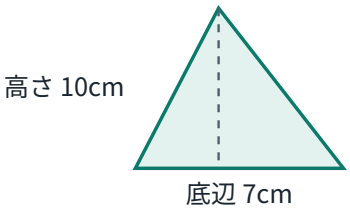

しき _____

面積 _____ cm^2

こたえ：三角形の面積

1ページ目の問題の答えです。

(1)

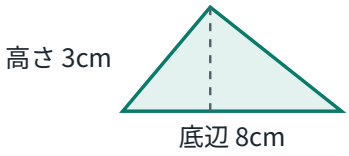

8 × 3 ÷ 2 = 12
面積　12 cm²

(2)



7 × 6 ÷ 2 = 21
面積　21 cm²

(3)

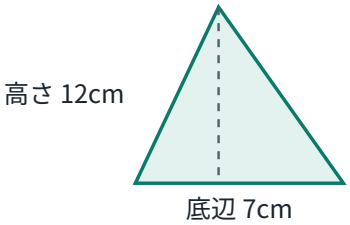

7 × 12 ÷ 2 = 42
面積　42 cm²

(4)

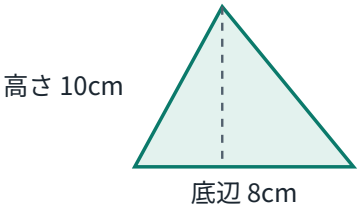

8 × 10 ÷ 2 = 40
面積　40 cm²

(5)

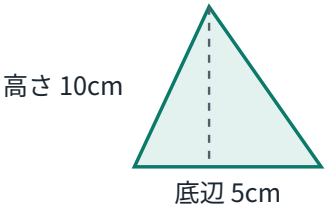

5 × 10 ÷ 2 = 25
面積　25 cm²

(6)



2 × 5 ÷ 2 = 5
面積　5 cm²

(7)

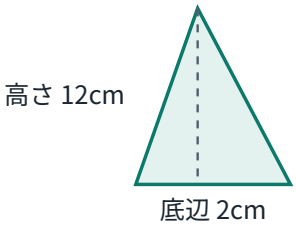

2 × 12 ÷ 2 = 12
面積　12 cm²

(8)

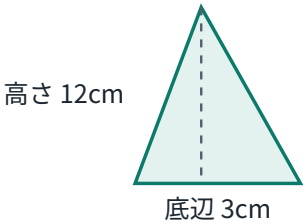

3 × 12 ÷ 2 = 18
面積　18 cm²

(9)

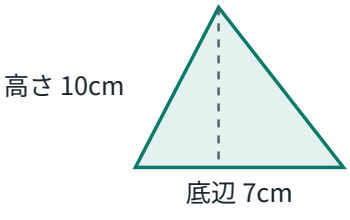

7 × 10 ÷ 2 = 35
面積　35 cm²