三角形の面積（20 cm まで）

大きな数の三角形です。

なまえ _____　　月　日

(1)

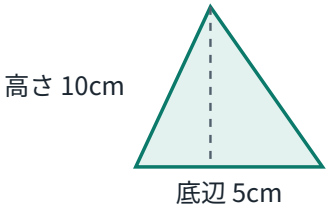

しき _____

面積 _____ cm^2

(2)

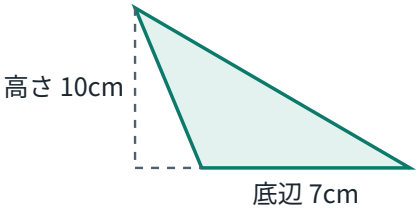

しき _____

面積 _____ cm^2

(3)

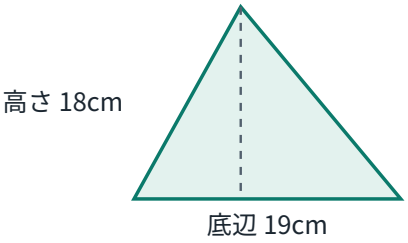

しき _____

面積 _____ cm^2

(4)

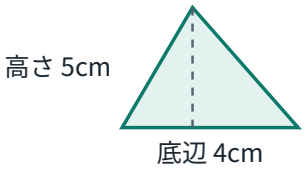

しき _____

面積 _____ cm^2

(5)

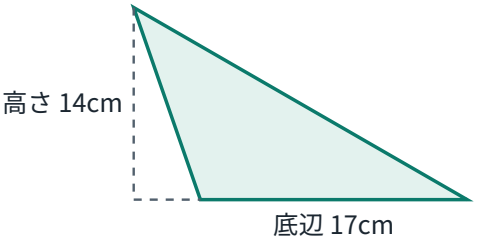

しき _____

面積 _____ cm^2

(6)

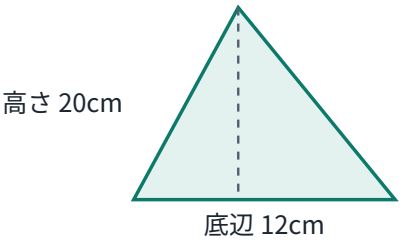

しき _____

面積 _____ cm^2

(7)

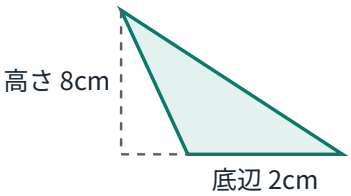

しき _____

面積 _____ cm^2

(8)

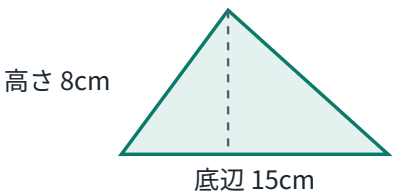

しき _____

面積 _____ cm^2

(9)

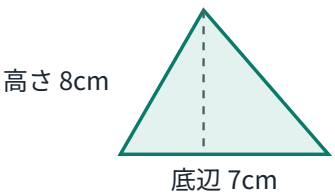

しき _____

面積 _____ cm^2

こたえ：三角形の面積（20 cm まで）

1ページ目の問題の答えです。

(1)

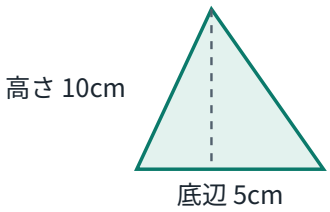

5 × 10 ÷ 2 = 25
面積　25 cm²

(2)

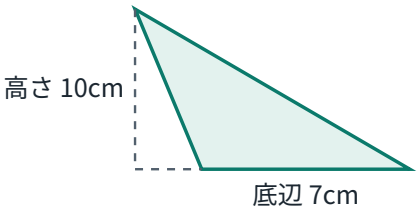

7 × 10 ÷ 2 = 35
面積　35 cm²

(3)

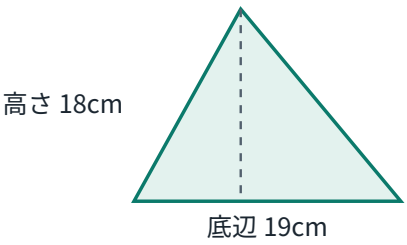

19 × 18 ÷ 2 = 171
面積　171 cm²

(4)

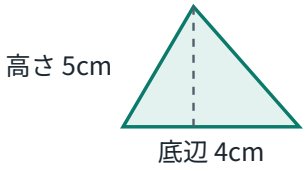

4 × 5 ÷ 2 = 10
面積　10 cm²

(5)

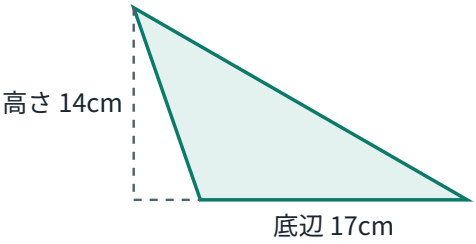

17 × 14 ÷ 2 = 119
面積　119 cm²

(6)

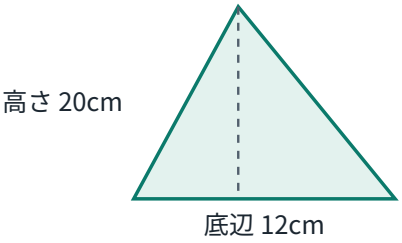

12 × 20 ÷ 2 = 120
面積　120 cm²

(7)

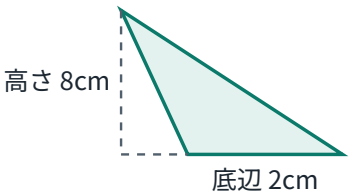

2 × 8 ÷ 2 = 8
面積　8 cm²

(8)

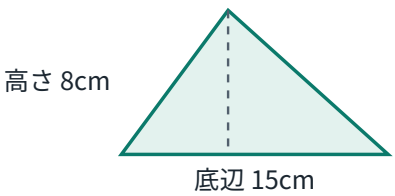

15 × 8 ÷ 2 = 60
面積　60 cm²

(9)

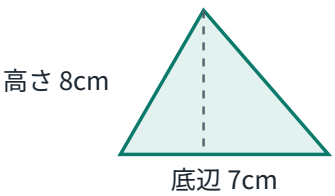

7 × 8 ÷ 2 = 28
面積　28 cm²