時計のはりをかこう

書いてある時こくになるように、短いはりと長いはりをかきましょう。

なまえ _____　　月　日

(1)



5時20分

(2)



5時40分

(3)



4時25分

(4)

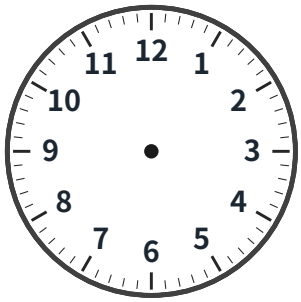

12時40分

(5)



4時45分

(6)

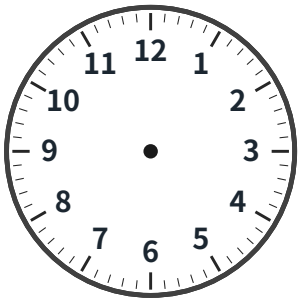

7時15分

(7)

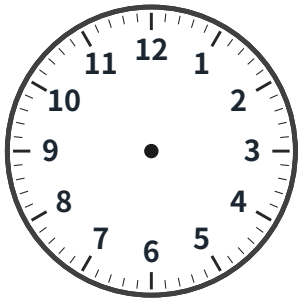

7時50分

(8)

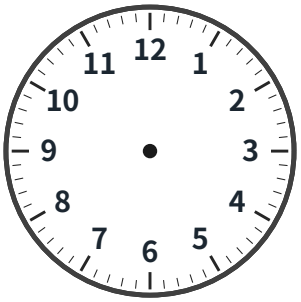

11時25分

(9)

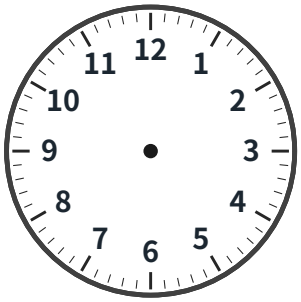

11時35分

(10)



10時0分

(11)



10時30分

(12)



11時55分

こたえ：時計のはりをかこう

1ページ目の問題の答えです。

(1)



5時20分

(2)



5時40分

(3)



4時25分

(4)



12時40分

(5)



4時45分

(6)



7時15分

(7)



7時50分

(8)



11時25分

(9)



11時35分

(10)



10時0分

(11)



10時30分

(12)



11時55分